Министерство образования и науки Челябинской области

Государственное бюджетное профессиональное образовательное учреждение

«Троицкий технологический техникум»

СОГЛАСОВАНО
Руководитель ЦМК
Сабирова О.В.
Подпись руководителя ЦМК

«06» мая 2026г.

Комплект
оценочных средств по общеобразовательной дисциплине
ООД. 06 Физика

Образовательной программы среднего профессионального образования
по специальности
43.02.17 Технологии индустрии красоты

Разработчики:

Шибанова Л.В.

Преподаватель, ГБПОУ «ТТТ»

Троицк, 2026г.

СОДЕРЖАНИЕ

1. Паспорт комплекта оценочных средств……..……3
1.1. Область применения комплекта контрольно-оценочных средств…3
1.2. Система контроля и оценки освоения программы учебной дисциплины……..……13
1.2.1. Формы промежуточной аттестации по учебной дисциплине.....13
1.2.2. Организация текущего контроля успеваемости, промежуточной аттестации по итогам освоения учебной дисциплины……..13
2.Задания для контроля и оценки освоения программы учебной дисциплины.…….....13
2.1.1 Оценочные материалы для входного контроля……...13
2.1.2 Оценочные материалы для текущего контроля…….17
2.1.3 Оценочные материалы для рубежного контроля…..…….. 40
2.2 Задания для промежуточной аттестации……...44
3 Рекомендуемая литература и иные источники…….……..49.

1. Паспорт комплекта оценочных средств

1.1. Область применения комплекта оценочных средств

Комплект оценочных средств предназначен для проверки результатов освоения общеобразовательной дисциплины (далее ООД) образовательной программы СПО (далее ОП СПО) по специальности СПО **43.02.17 Технологии индустрии красоты**

Планируемые результаты освоения общеобразовательной дисциплины в соответствии с ФГОС СПО и на основе ФГОС СОО

Особое значение дисциплина имеет при формировании и развитии ОК и ПК , которые прописаны в программе.

Код и наименование формируемых компетенций	**Планируемые результаты освоения дисциплины**	
	Общие (личные, метопредметные)	**Дисциплинарные(предметные)**
ОК 01. Выбирать способы решения задач профессиональной деятельности применительно к различным контекстам	**В части трудового воспитания:** ЛР 23 - готовность к труду, осознание ценности мастерства, трудолюбие; ЛР 24- готовность к активной деятельности технологической и социальной направленности, способность инициировать, планировать и самостоятельно выполнять такую деятельность; ЛР 25- интерес к различным сферам профессиональной деятельности**,** **Овладение универсальными учебными познавательными действиями:** а) **базовые логические действия**: МРП 01- самостоятельно формулировать и актуализировать проблему, рассматривать ее всесторонне**;** МРП 02- устанавливать существенный признак или основания для сравнения, классификации и обобщения; МРП 03- определять цели деятельности, задавать параметры и	Прб 01-сформировать представления о роли и месте физики и астрономии в современной научной картине мира, о системообразующей роли физики в развитии естественных наук, техники и современных технологий, о вкладе российских и зарубежных ученых-физиков в развитие науки; понимание физической сущности наблюдаемых явлений микромира, макромира и мегамира; понимание роли астрономии в практической деятельности человека и дальнейшем научно-техническом развитии, роли физики в формировании кругозора и функциональной грамотности человека для решения практических задач; Прб 07- сформировать умения решать

	критерии их достижения; МРП 04- выявлять закономерности и противоречия в рассматриваемых явлениях; МРП 05- вносить коррективы в деятельность, оценивать соответствие результатов целям, оценивать риски последствий деятельности; МРП 06- развивать креативное мышление при решении жизненных проблем **б) базовые исследовательские действия:** МРП 07- владеть навыками учебно-исследовательской и проектной деятельности, навыками разрешения проблем; МРП 12- выявлять причинно-следственные связи и актуализировать задачу, выдвигать гипотезу ее решения, находить аргументы для доказательства своих утверждений, задавать параметры и критерии решения; МРП 13- анализировать полученные в ходе решения задачи результаты, критически оценивать их достоверность, прогнозировать изменение в новых условиях; МРП17- уметь переносить знания в познавательную и практическую области жизнедеятельности; МРП 18- уметь интегрировать знания из разных предметных областей; МРП 19- выдвигать новые идеи, предлагать оригинальные подходы и решения; способность их использования в познавательной и социальной	расчетные задачи с явно заданной физической моделью, используя физические законы и принципы; на основе анализа условия задачи выбирать физическую модель, выделять физические величины и формулы, необходимые для ее решения, проводить расчеты и оценивать реальность полученного значения физической величины; решать качественные задачи, выстраивая логически непротиворечивую цепочку рассуждений с опорой на изученные законы, закономерности и физические явления; Прб 03 - владеть основополагающими физическими понятиями и величинами, характеризующими физические процессы (связанными с механическим движением, взаимодействием тел, механическими колебаниями и волнами; атомно-молекулярным строением вещества, тепловыми процессами; электрическим и магнитным полями, электрическим током, электромагнитными колебаниями и волнами; оптическими явлениями; квантовыми явлениями, строением атома и атомного ядра,

	практике	радиоактивностью); владение основополагающими астрономическими понятиями, позволяющими характеризовать процессы, происходящие на звездах, в звездных системах, в межгалактической среде; движение небесных тел, эволюцию звезд и Вселенной; Прб 04- владеть закономерностями, законами и теориями (закон всемирного тяготения, I, II и III законы Ньютона, закон сохранения механической энергии, закон сохранения импульса, принцип суперпозиции сил, принцип равноправности инерциальных систем отсчета; молекулярно-кинетическую теорию строения вещества, газовые законы, первый закон термодинамики; закон сохранения электрического заряда, закон Кулона, закон Ома для участка цепи, закон Ома для полной электрической цепи, закон Джоуля - Ленца, закон электромагнитной индукции, закон сохранения энергии, закон прямолинейного распространения света, закон отражения света, закон преломления света; закон сохранения

		энергии, закон сохранения импульса, закон сохранения электрического заряда, закон сохранения массового числа, постулаты Бора, закон радиоактивного распада); уверенное использование законов и закономерностей при анализе физических явлений и процессов
ОК 02. Использовать современные средства поиска, анализа и интерпретации информации, и информационные технологии для выполнения задач профессиональной деятельности	**В областиценности научного познания:** ЛР 32- сформированность мировоззрения, соответствующего современному уровню развития науки и общественной практики, основанного на диалоге культур, способствующего осознанию своего места в поликультурном мире; ЛР 33- совершенствование языковой и читательской культуры как средства взаимодействия между людьми и познания мира; ЛР 34- осознание ценности научной деятельности, готовность осуществлять проектную и исследовательскую деятельность индивидуально и в группе; **Овладение универсальными учебными познавательными действиями:** **в) работа с информацией:** МРП 21- владеть навыками получения информации из источников разных типов, самостоятельно осуществлять поиск, анализ, систематизацию и интерпретацию информации различных видов и форм представления;	Прб 05- уметь учитывать границы применения изученных физических моделей: материальная точка, инерциальная система отсчета, идеальный газ; модели строения газов, жидкостей и твердых тел, точечный электрический заряд, ядерная модель атома, нуклонная модель атомного ядра при решении физических задач Прб 09- уметь формировать собственную позицию по отношению к физической информации, получаемой из разных источников, умений использовать цифровые технологии для поиска, структурирования, интерпретации и представления учебной и научно-популярной информации; развитие умений критического анализа получаемой

	МРП 22- создавать тексты в различных форматах с учетом назначения информации и целевой аудитории, выбирая оптимальную форму представления и визуализации; МРП 23- оценивать достоверность, легитимность информации, ее соответствие правовым и морально-этическим нормам; МРП 24 - использовать средства информационных и коммуникационных технологий в решении когнитивных, коммуникативных и организационных задач с соблюдением требований эргономики, техники безопасности, гигиены, ресурсосбережения, правовых и этических норм, норм информационной безопасности; МРП 25- владеть навыками распознавания и защиты информации, информационной безопасности личности	информации
ОК 03. Планировать и реализовывать собственное профессиональное и личностное развитие, предпринимательскую деятельность в профессиональной сфере, использовать знания по финансовой грамотности в различных жизненных ситуациях	**В области духовно-нравственного воспитания:** ЛР 12 - сформированность нравственного сознания, этического поведения; ЛР 13 - способность оценивать ситуацию и принимать осознанные решения, ориентируясь на морально-нравственные нормы и ценности; ЛР 14 - осознание личного вклада в построение устойчивого будущего; ЛР 15- ответственное отношение к своим родителям и (или) другим членам семьи, созданию семьи на основе осознанного принятия ценностей семейной жизни в соответствии с традициями народов	Прб 06- владеть основными методами научного познания, используемыми в физике: проводить прямые и косвенные измерения физических величин, выбирая оптимальный способ измерения и используя известные методы оценки погрешностей измерений, проводить исследование зависимостей физических величин с использованием прямых измерений, объяснять полученные результаты, используя физические

	России; **Овладение универсальными регулятивными действиями:** а) **самоорганизация:** МРР 01- самостоятельно осуществлять познавательную деятельность, выявлять проблемы, ставить и формулировать собственные задачи в образовательной деятельности и жизненных ситуациях; МРР 02 - самостоятельно составлять план решения проблемы с учетом имеющихся ресурсов, собственных возможностей и предпочтений; МРР 03- давать оценку новым ситуациям; способствовать формированию и проявлению широкой эрудиции в разных областях знаний, постоянно повышать свой образовательный и культурный уровень; б) **самоконтроль:** МРР 10 - использовать приемы рефлексии для оценки ситуации, выбора верного решения; МРР 11 - уметь оценивать риски и своевременно принимать решения по их снижению; в) **эмоциональный интеллект, предполагающий сформированность:** МРР 14 - внутренней мотивации, включающей стремление к достижению цели и успеху, оптимизм, инициативность, умение действовать, исходя из своих возможностей; МРР 15 - эмпатии, включающей	теории, законы и понятия, и делать выводы; соблюдать правила безопасного труда при проведении исследований в рамках учебного эксперимента и учебно-исследовательской деятельности с использованием цифровых измерительных устройств и лабораторного оборудования; сформированность представлений о методах получения научных астрономических знаний; Прб 11- овладеть (сформировать представления) правилами записи физических формул рельефно-точечной системы обозначений Л. Брайля (для слепых и слабовидящих обучающихся)

	способность понимать эмоциональное состояние других, учитывать его при осуществлении коммуникации, способность к сочувствию и сопереживанию; МРР 16 - социальных навыков, включающих способность выстраивать отношения с другими людьми, заботиться, проявлять интерес и разрешать конфликты	
ОК 04. Эффективно взаимодействовать и работать в коллективе и команде	ЛР 26 - готовность и способность к образованию и саморазвитию, самостоятельности и самоопределению; -овладение навыками учебно-исследовательской, проектной и социальной деятельности; **Овладение универсальными коммуникативными действиями:** б) **совместная деятельность**: МРК 06 - понимать и использовать преимущества командной и индивидуальной работы; МРК 08 - принимать цели совместной деятельности, организовывать и координировать действия по ее достижению: составлять план действий, распределять роли с учетом мнений участников обсуждать результаты совместной работы; МРК 11 - координировать и выполнять работу в условиях реального, виртуального и комбинированного взаимодействия; МРК 12 - осуществлять позитивное стратегическое поведение в различных ситуациях, проявлять творчество и воображение, быть инициативным **Овладение универсальными**	Прб 10- овладеть умениями работать в группе с выполнением различных социальных ролей, планировать работу группы, рационально распределять деятельность в нестандартных ситуациях, адекватно оценивать вклад каждого из участников группы в решение рассматриваемой проблемы

	регулятивными действиями: г) **принятие себя и других людей:** МРР 18- принимать мотивы и аргументы других людей при анализе результатов деятельности; МРР 19- признавать свое право и право других людей на ошибки; МРР 20- развивать способность понимать мир с позиции другого человека	
ОК 05. Осуществлять устную и письменную коммуникацию на государственном языке Российской Федерации с учетом особенностей социального и культурного контекста	**В областиэстетического воспитания:** ЛР 16 - эстетическое отношение к миру, включая эстетику научного творчества, присущего физической науке; ЛР 17 - способность воспринимать различные виды искусства, традиции и творчество своего и других народов, ощущать эмоциональное воздействие искусства; ЛР 18 - убежденность в значимости для личности и общества отечественного и мирового искусства, этнических культурных традиций и народного творчества; ЛР 19 - готовность к самовыражению в разных видах искусства, стремление проявлять качества творческой личности; **Овладение универсальными коммуникативными действиями:** а) **общение:** МРК 01- осуществлять коммуникации во всех сферах жизни; МРК 02 - распознавать невербальные средства общения,	Прб 02- уметь распознавать физические явления (процессы) и объяснять их на основе изученных законов: равномерное и равноускоренное прямолинейное движение, свободное падение тел, движение по окружности, инерция, взаимодействие тел, колебательное движение, резонанс, волновое движение; диффузия, броуновское движение, строение жидкостей и твердых тел, изменение объема тел при нагревании (охлаждении), тепловое равновесие, испарение, конденсация, плавление, кристаллизация, кипение, влажность воздуха, связь средней кинетической энергии теплового движения молекул с абсолютной температурой, повышение давления газа при его нагревании в закрытом сосуде, связь между параметрами состояния газа в

	понимать значение социальных знаков, распознавать предпосылки конфликтных ситуаций и смягчать конфликты; МРК 05- развернуто и логично излагать свою точку зрения с использованием языковых средств	изопроцессах; электризация тел, взаимодействие зарядов, нагревание проводника с током, взаимодействие магнитов, электромагнитная индукция, действие магнитного поля на проводник с током и движущийся заряд, электромагнитные колебания и волны, прямолинейное распространение света, отражение, преломление, интерференция, дифракция и поляризация света, дисперсия света; фотоэлектрический эффект, световое давление, возникновение линейчатого спектра атома водорода, естественная и искусственная радиоактивность
ОК 07. Содействовать сохранению окружающей среды, ресурсосбережению, применять знания об изменении климата, принципы бережливого производства, эффективно действовать в чрезвычайных ситуациях	**В областиэкологического воспитания:** ЛР 27 - сформированность экологической культуры, понимание влияния социально-экономических процессов на состояние природной и социальной среды, осознание глобального характера экологических проблем; ЛР 28- планирование и осуществление действий в окружающей среде на основе знания целей устойчивого развития человечества; активное неприятие действий, приносящих вред окружающей среде;	Прб 08- сформировать умения применять полученные знания для объяснения условий протекания физических явлений в природе и для принятия практических решений в повседневной жизни для обеспечения безопасности при обращении с бытовыми приборами и техническими устройствами, сохранения здоровья и соблюдения норм экологического поведения в окружающей среде;

	ЛР 30 - умение прогнозировать неблагоприятные экологические последствия предпринимаемых действий, предотвращать их; ЛР 31- расширение опыта деятельности экологической направленности на основе знаний по физике	понимание необходимости применения достижений физики и технологий для рационального природопользования
ПК 1.2 Выполнять химическое воздействие (включая завивку и выпрямление волос) с использованием современных технологий)	ЛР 24 - готовность к активной деятельности технологической и социальной направленности, способность инициировать, планировать и самостоятельно выполнять такую деятельность ЛР 25 - интерес к различным сферам профессиональной деятельности, умение совершать осознанный выбор будущей профессии и реализовывать собственные жизненные планы МРП 01- самостоятельно формулировать и актуализировать проблему, рассматривать ее всесторонне; МРП 16 - осуществлять целенаправленный поиск переноса средств и способов действия в профессиональную среду: МРК 08 – принимать цели совместной деятельности, организовывать и координировать действия по ее достижению: составлять план действий, распределять роли с учетом мнений участников, обсуждать результаты совместной работы; МРР 10 – использовать приемы рефлексии для оценки ситуации, выбора верного решения	Прб 09- уметь формировать собственную позицию по отношению к физической информации, получаемой из разных источников, умений использовать цифровые технологии для поиска, структурирования, интерпретации и представления учебной и научно-популярной информации; развитие умений критического анализа получаемой информации Прб 10- овладеть умениями работать в группе с выполнением различных социальных ролей, планировать работу группы, рационально распределять деятельность в нестандартных ситуациях, адекватно оценивать вклад каждого из участников группы в решение рассматриваемой проблемы

1.2 Система контроля и оценки освоения программы общеобразовательной дисциплины

1.2.1. Формы промежуточной аттестации по ООД

Общеобразовательная дисциплина	**Формы промежуточной аттестации**
ООД 06 Физика	Дифференцированный зачет

1.2.2. Организация текущего контроля успеваемости, промежуточной аттестации по итогам освоения программы общеобразовательной дисциплины

Контроль и оценка результатов обучения осуществляется преподавателем в процессе проведения практических занятий и лабораторных работ, тестирования, а также выполнения обучающимися индивидуальных заданий. Результаты обучения определяют, что обучающиеся должны знать, понимать и демонстрировать по завершении изучения дисциплины.

Для формирования, контроля и оценки результатов освоения учебной дисциплины используется система оценочных мероприятий, представляющая собой комплекс учебных мероприятий, согласованных с результатами обучения и сформулированных с учетом ФГОС СОО (предметные результаты по дисциплине) и ФГОС СПО

2. Задания для контроля и оценки освоения программы общеобразовательной дисциплины

2.1.1 Оценочные материалы для входного контроля

Рекомендации по переводу первичных баллов в отметки по пятибалльной шкале

Максимальное число баллов, которое можно получить за правильное выполнение входной контрольной работы, составляет **10 баллов** (1 балл за каждое правильно выполненное задание)

Отметка по пятибалльной шкале	**Первичные баллы**
«2»	0 – 4
«3»	5 – 7
«4»	8 – 9
«5»	10

Контрольная работа

1. На рисунке показана мензурка с жидкостью. Выберите правильное утверждение.

1) Цена деления мензурки равна 2 мл.
2) Объем жидкости в мензурке больше 25 мл.
3) Цена деления мензурки равна 0,5 мл.
4) Мензурка – прибор для измерения объема газообразных тел.

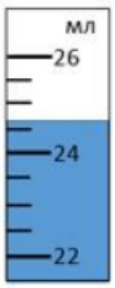

2. На столе находятся три бруска одинаковых размеров и массы. Какой из них оказывает на стол меньшее давление?

1) 1.
2) 2.
3) 3.
4) Бруски оказывают одинаковое давление.

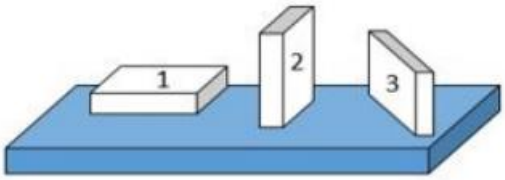

3. Установите соответствие между физическими понятиями и примерами. К каждой позиции первого столбца подберите соответствующую позицию из второго столбца и запишите в таблицу выбранные цифры под соответствующими буквами.

ФИЗИЧЕСКИЕ ПОНЯТИЯ
А) физическаявеличина
Б) единица физической величины
В) прибордляизмерения физическойвеличины

ПРИМЕРЫ
1) теплопередача
2) работасилы
3) конвекция
4) манометр
5) миллиметр

Запишите в ответ цифры, расположив их в порядке, соответствующем буквам

А	Б	В

4. На рисунке представлены графики зависимости координаты x от времени t для четырёх тел, движущихся вдоль оси Ox.
Используя рисунок, выберите из предложенного перечня два верных утверждения. Укажите их номера.

1) ТочкаВсоответствуетвстречетел 2 и 3.
2) ВточкеБнаправлениескоростителА 2 изменилосьнапротивоположное.
3) Тело 2 движетсяравноускоренно.
4) Тело 3 движетсяравномернопрямолинейно.
5) Вначальныймоментвременитела 2 и 4 имелиодинаковыекоординаты.

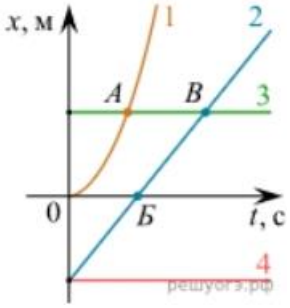

5. На покоящееся тело, находящееся на гладкой горизонтальной плоскости, в момент времени t =0 начинают действовать две горизонтальные силы (см. рис.). Определите, как после этого изменяются со временем модуль скорости тела и модуль ускорения тела.

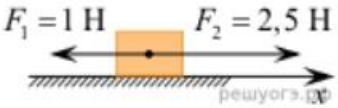

Для каждой величины определите соответствующий характер изменения:
1) увеличивается
2) уменьшается
3) неизменяется

Запишите в таблицу выбранные цифры для каждой физической величины. Цифры в ответе могут повторяться.

Модуль скорости	Модуль ускорения

6. Дан график зависимости проекции скорости тела от времени. Какой участок графика соответствует равномерному движению тела?

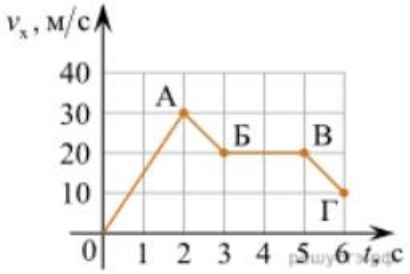

1. ОА
2. АБ
3. БВ
4. ВГ

7. Установите соответствие между формулами для расчёта физических величин и названиями этих величин. В формулах использованы обозначения: m — масса тела; υ — скоростьтела; a — ускорение тела. К каждой позиции первого столбца подберите соответствующую позицию второго столбца и запишите в таблицу выбранные цифры под соответствующими буквами.

ФОРМУЛА	ФИЗИЧЕСКАЯ ВЕЛИЧИНА
А) $m\upsilon$	1) работасилы
Б) ma	2) модульимпульсатела
	3) модульравнодействующейсилы
	4) давление

8. На рисунке представлен график зависимости координаты тела от времени.

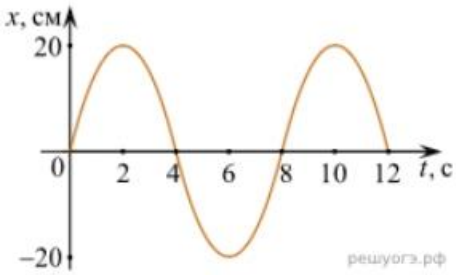

Амплитуда и период колебаний равны:
1) 20 см; 4 с 2) 0,2 м; 6 с 3) 0,2 м; 8 с 4) 20 см; 12 с.

9. Установите соответствие (логическую пару). К каждой строке, отмеченной буквой, подберите формулу, обозначенную цифрой. Запишите в таблицу выбранные цифры под соответствующими буквами.

А) Закон Гука	1. $G\,mM\,/\,r^2$
Б) Закон всемирного тяготения	2. $BIlsin\alpha$

В) Второй закон Ньютона
Г) Сила Ампера

3. $k\,\Delta l$
4. U / R
5. ma

А	Б	В	Г

10. Сколько нейтронов содержит ядро изотопа магния $^{25}_{12}Mg$?

1) 25 2) 12 3) 37 4) 13.

ОТВЕТЫ

1	2	3	4	5	6	7	8	9	10
3	1	А – 2 Б – 5 В – 4	15	13	3	А –2 Б – 3	3	А – 3 Б – 1 В – 5 Г – 2	4

2.1.2 Оценочные материалы для текущего контроля

Рекомендации по переводу процентов выполнения задания в отметки по пятибалльной шкале

Максимальное число баллов, которое можно получить за правильное выполнение всей тестовой работы, составляет **12 баллов** (по теме «Волновые свойства света» – **13 баллов**). Тестовое задание оценивается **1 баллом**, задание с профессиональной направленностью – **2 баллами**.

Отметка по пятибалльной шкале	% выполнения задания	Первичные баллы	
«2»	меньше 50%	0 – 5	0 – 6
«3»	50% - 70%	6 – 8	7 – 9
«4»	71% - 90%	9 – 10	10 – 11
«5»	91% - 100%	11 – 12	12 – 13

Тест по теме «Основы кинематики»

1. Расстояние между начальной и конечной точками - это:

А) путь Б) перемещение В) смещение Г) траектория

2. В каком из следующих случаев движение тела нельзя рассматривать как движение материальной точки?

А) Движение Земли вокруг Солнца.

Б) Движение спутника вокруг Земли.

В) Полет самолета из Владивостока в Москву.

Г) Вращение детали, обрабатываемой на станке

3. Какие из перечисленных величин являются скалярными?
А) перемещение Б) путь В) скорость

4. Что измеряет спидометр автомобиля?
А) ускорение; Б) модуль мгновенной скорости;
В) среднюю скорость; Г) перемещение

5. Какая единица времени является основной в Международной системе единиц?
А) 1час Б) 1 мин В) 1 с Г) 1 сутки.

6. Автомобиль объехал Москву по кольцевой дороге, длина которой

109 км. Чему равны пройденный путь l и перемещение S автомобиля?
А) l = 109 км; S = 0 Б) l =218км S = 109 км

В) l = 218 км; S = 0. Г) l=109км; S=218 км

7. Какой из графиков соответствует равномерному движению? (Рис. 1).

А**)** 1 Б) 2 В) 3 Г) 4.

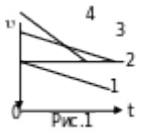

Рис.1

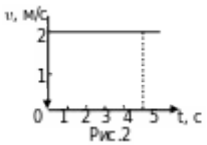

Рис.2

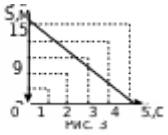

Рис. 3

8. Определите путь, пройденный точкой за 5 с. (Рис. 2).

А) 2м Б) 2,5м В) 5м Г) 10м.

9. На рисунке 3 представлен график зависимости пути, пройденного велосипедистом, от времени. Определить путь, пройденный велосипедистом за интервал времени от t_1 = 1с до t_2 = 3с?

А) 9 м Б) 6 м В) 3 м. Г) 12 м

10. Если ускорение равно 2 м/с^2, то это:

А) равномерное движение Б) равнозамедленное движение

В) равноускоренное движение Г) прямолинейное

11. Ускорение характеризует изменение вектора скорости

А) по величине и направлению

Б) по направлению

В) по величине

12. Автомобиль, движущийся прямолинейно равноускоренно, увеличил свою скорость с 3 м/с до 9 м/с за 6 секунд. С каким ускорением двигался автомобиль?
А) 0 м/с^2 Б) 3 м/с^2 В) 2 м/с^2 Г) 1 м/с^2

Ответы:

1	2	3	4	5	6	7	8	9	10	11	12
б	г	а	б	в	в	б	г	б	в	а	г

Тест по теме « Основы динамики»

1. Выберете один правильный ответ. Равнодействующая всех сил, действующая на тело, равна нулю. Движется это тело или находится в состоянии покоя?

А. Тело движется равномерно прямолинейно.

Б. Тело движется равномерно по окружности в горизонтальной плоскости.

В. Тело находится в состоянии покоя.

Г. Тело движется равномерно прямолинейно или находится в состоянии покоя.

2. Выберете один правильный ответ. Мяч подбросили вверх с начальной скоростью υ_0. На рисунке *а* указано направление силы тяжести, действующей на тело. Определите направление вектора ускорения мяча, движущегося вверх (рисунок *б*).

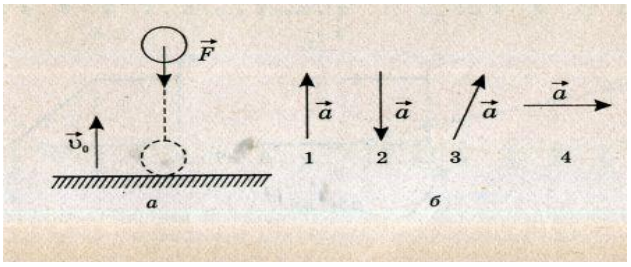

А. Только так, как показано на рис. 1*б*. Б. Только так, как показано на рис. 2*б*.
В. Только так, как показано на рис. *3б.* Г. Только так, как показано на рис. 4*б*.

3. Определите один правильный ответ. Если равнодействующая всех приложенных сил равна 4 Н, то у тела массой 2 кг

А. Ускорение 2 м/с^2 Б. Ускорение 0 м/с^2 В. Ускорение может быть любым

Г. Ускорение равно 8 м/с^2

4. При измерениях массы тела и его веса на полюсе и на экваторе было обнаружено, что

А. Масса и вес одинаковы В. масса различна, вес одинаков

Б. И вес, и масса различны Г. масса одинакова, вес различен

5. Установите соответствие между физическими величинами и единицами измерения этих величин в системе СИ.

Физическая величина Единица величины.

А) жесткость 1) килограмм (1кг)

Б) сила 2) Ньютон (1 Н)

В) вес тела 3) Ньютон*метр (1 Н*м)

Г) ускорение 4) Ньютон на метр (1 Н/м)

5) метр в секунду за секунду (1 м/с^2)

6) Джоуль (1 Дж)

6. Формула, выражающая закон всемирного тяготения…

А. $F = GMm/R^2$ Б. $F = kq_1q_2/r^2$ В. $F = GM/R^2$ Г. $F = k\Delta l$

7. III закон Ньютона математически можно записать так: (векторы не указаны)

А. $F = ma$ Б. $F = \mu N$ В. $F_1 = -F_2$ Г. $F_x = -kx$

8. Вес тела – это...

А. ...сила, с которой тело притягивает Землю Б. ...сила, с которой тело действует на опору

В. ...сила, с которой тело действует на подвес

Г. ...сила, с которой тело вследствие земного притяжения действует на опору или подвес, неподвижные относительно него

9. Решите задачу. Пружина жесткостью 100 Н/м растягивается силой 20 Н. Чему равно удлинение пружины?

А. 5 см. Б. 20 см. В. 5 м. Г. 0,2 см.

Д. Среди ответов А — Г нет правильного.

10. Выберете один правильный ответ. Брусок лежит неподвижно на наклонной плоскости (рис. 7). Какое направление имеет вектор силы трения?

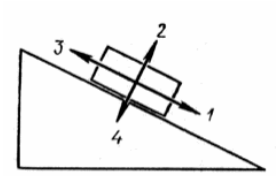

Рис. 7

А. 1. **Б.** 2. **В.** 3. **Г.** 4. **Д.** *F тр* =0.

Ответы:

№	1	2	3	4	5	6	7	8	9	10
1	Г	Б	А	Г	А-4, Б-2, В-2, Г-5	А	В	Г	Б	В

Тест по теме «Агрегатные состояния вещества»

1. С увеличением относительной влажности разность показаний сухого и влажного термометров психрометра…

1) уменьшится.
2) увеличится.
3) не изменится.

2. Один моль влажного воздуха находится в ненасыщенном состоянии при температуре*T* и давлении *p*. Температуру газа изобарно увеличили. Как изменились при этом относительная влажность воздуха и точка росы?

Для каждой величины определите соответствующий характер изменения:

1) увеличилась
2) уменьшилась
3) неизменилась

Запишите в таблицу выбранные цифры для каждой физической величины. Цифры в ответе могут повторяться.

Относительная влажность воздуха	Точка росы

3. С помощью какого прибора можно измерить относительную влажность воздуха.

1)

2)

3)

4)

4. Стеклянную пластинку подвесили к динамометру. После этого ею прикоснулись к поверхности жидкости и оторвали от нее. Для какой жидкости – ртути, воды или керосина – динамометр покажет в момент отрыва силу больше?

1) Для воды.
2) Для ртути.
3) Для керосина.
4) Показания будут одинаковые.

5. В двух капиллярных трубках одинакового радиуса находится вода и спирт (плотность спирта равна 800 кг/м^3; плотность воды – 1000 кг/м^3). Одна из этих жидкостей поднялась на 10 мм выше, чем другая. Выберите правильное утверждение.

1) Спирт поднялся выше, чем вода.
2) Вода поднялась выше, чем спирт.
3) Если радиус уменьшить, разность уровней жидкости уменьшится.
4) Среди утверждений нет правильного.

6. На стекле находятся капли воды и ртути. На каком рисунке ртуть?

1) А, т.к. ртуть смачивает стекло.
2) А, т.к. ртуть не смачивает стекло.
3) Б, т.к. ртуть смачивает стекло.
4) Б, т.к. ртуть не смачивает стекло.

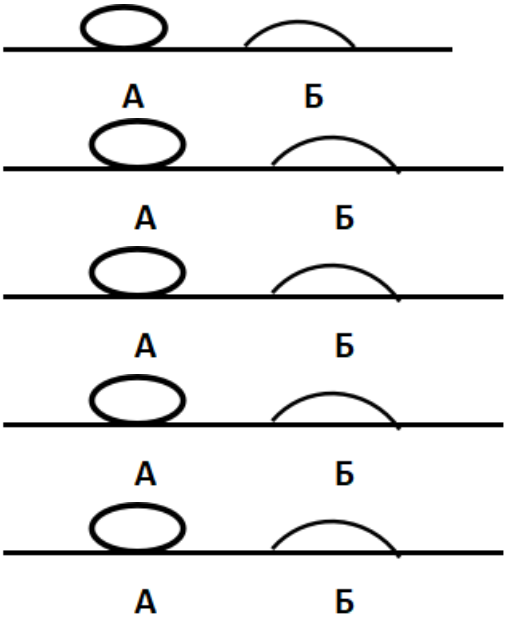

7. Какое из перечисленных свойств характерно только для кристаллических тел?

1) Изотропность.
2) Отсутствие определенной температуры плавления.
3) Существование определенной температуры плавления.

4) Текучесть.

8. Какого вида деформацию испытывает стена здания?
1) Деформацию кручения.
2) Деформацию сжатия.
3) Деформацию сдвига.
4) Деформацию растяжения.

9. Какая из приведенных ниже формул выражает закон Гука?
1) $E = \sigma |\varepsilon|$. 2) $\sigma = E / |\varepsilon|$. 3) $\sigma = E |\varepsilon|$. 4) $\sigma = |\varepsilon| / E$.

10. Выберите все верные утверждения о физических явлениях, величинах и закономерностях. Запишите цифры, под которыми они указаны.
1) В герметически закрытом сосуде находятся вода и водяной пар. При нагревании сосуда концентрация молекул водяного пара увеличится.
2) Психрометр – прибор для измерения абсолютной влажности.
3) Точка росы – температура, при которой водяной пар становится насыщенным.
4) Пластическими называются деформации, которые полностью исчезают после прекращения действия внешних сил.
5) Все кристаллические тела анизотропны.

11. Вопрос с профессиональной направленностью:
Почему пары химических препаратов скапливаются под потолком.

ОТВЕТЫ

1	2	3	4	5	6	7	8	9	10
1	23	4	1	1	2	3	2	3	135

Тест по теме «Электростатика»

1. Как изменится сила взаимодействия двух точечных электрических зарядов при уменьшении расстояния между ними вдвое?
1) Не изменится.
2) Увеличится в 4 раза.
3) Уменьшится в 4 раза.
4) Уменьшится в 2 раза.

2. Что можно сказать о зарядах данных шариков? (см. рис.)

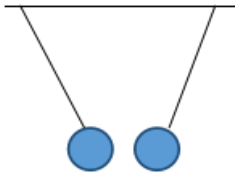

1) Оба шарика заряжены положительно.
2) Оба шарика заряжены отрицательно.
3) Один шарик заряжен положительно, другой – отрицательно.
4) Шарики имеют заряды одного знака.

3. В ядре атома свинца 207 частиц. Вокруг ядра обращается 82 электрона. Сколько нейтронов и протонов в ядре этого атома?

1) 82 протона, 125 нейтронов.
2) 125 протонов, 82 нейтрона.
3) 82 протона, 207 нейтронов.
4) 207 протонов, 82 нейтрона.

4. Как изменится напряженность электрического поля в некоторой точке от точечного заряда при увеличении заряда в 4 раза?
1) Увеличится в 16 раз.
2) Увеличится в 2 раза.
3) Увеличится в 4 раза.
4) Не изменится.

5. Электрон перемещается в поле, силовые линии которого показаны на рисунке. Выберите правильное утверждение.

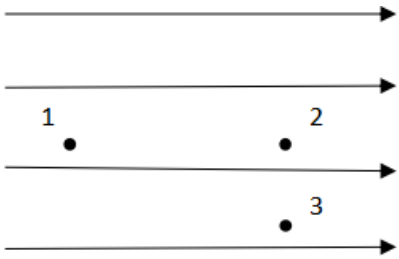

1) При перемещении электрона из точки 2 в точку 3 электрическое поле совершает положительную работу.
2) При перемещении электрона по траектории 1-2-3-1 электрическое поле совершает отрицательную работу.
3) При перемещении электрона из точки 1 в точку 2 электрическое поле совершает отрицательную работу.
4) При перемещении электрона из точки 2 в точку 3 электрическое поле совершает отрицательную работу.

6. Какое из приведённых ниже выражений характеризует работу электрического поля по перемещению заряда?
1) q/U. 2) $E\Delta d$. 3) qU. 4) $E/\Delta d$.

7. Какая физическая величина определяется отношением потенциальной энергии электрического заряда в электрическом поле к величине этого заряда?
1) Потенциал электрического поля.
2) Напряженность электрического поля.
3) Электроемкость.
4) Работа электростатического поля.

8. Воздушный конденсатор опускают в керосин с диэлектрической проницаемостью ε = 2. Выберитеправильноеутверждение.
1) Электроемкость конденсатора уменьшится в 4 раза.
2) Электроемкость конденсатора уменьшится в 2 раза.
3) Электроемкость конденсатора увеличится в 2 раза.
4) Электроемкость конденсатора не изменится.

9. Как изменится энергия электрического поля конденсатора, если напряжение между его обкладками уменьшить в 2 раза?

1) Уменьшится в 2 раза.
2) Уменьшится в 4 раза.
3) Увеличится в 2 раза.
4) Увеличится в 4 раза.

10. Выберите все верные утверждения о физических явлениях, величинах и закономерностях. Запишите цифры, под которыми они указаны.

1) Напряженность – силовая характеристика электрического поля.
2) Электростатическое поле создают заряды, которые движутся равномерно в данной системе отсчета.
3) В изолированной системе алгебраическая сумма зарядов всех тел сохраняется.
4) Тела, через которые электрические заряды могут переходить от заряженного тела к незаряженному вследствие наличия в них свободных носителей зарядов, называются диэлектриками.

11. Вопрос с профессиональной направленностью:
В лампах дневного света, а также в рекламных газосветных трубках газ светится под действиемдвижущихся зарядов – электронов и положительно заряженных частиц. Можно ли движение этихчастиц в трубке назвать электрическим током? Почему?

ОТВЕТЫ

1	2	3	4	5	6	7	8	9	10
2	3	1	3	3	3	1	3	2	13

Тест по теме «Постоянный ток»

1. Во сколько раз отличаются сопротивления двух медных проводов, если один из них имеет в 4 раза большую длину и в 2 раза большую площадь поперечного сечения, чем другой?

1) В 8 раз. 2) В 4 раза. 3) В 2 раза. 4) В 16 раз.

2. На рисунке изображена схема соединения проводников. Выберите правильное утверждение.

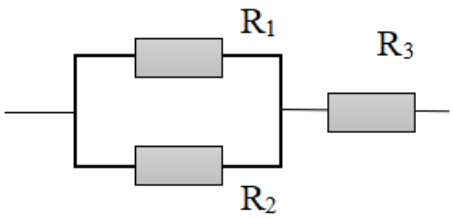

1) Резисторы R_1 и R_3 включены последовательно.
2) Резисторы R_1 и R_2 включены параллельно.
3) Резисторы R_2 и R_3 включены последовательно.
4) Резисторы R_1 и R_2 включены последовательно.

3. Какое из приведенных ниже выражений характеризует силу тока в полной цепи?

1) U / R. 2) ρ**l** / S. 3) $\mathscr{E}$ / (R + r). 4) q /Δt.

4. Необходимо измерить силу тока в лампе и напряжение на ней. Как следует включить по отношению к лампе амперметр и вольтметр?

1) Амперметр и вольтметр параллельно.
2) Амперметр последовательно, вольтметр параллельно.
3) Амперметр и вольтметр последовательно.
4) Амперметр параллельно, вольтметр последовательно.

5. Физическая величина, характеризующая работу сторонних сил по разделению заряда 1Кл внутри источника тока, называется…

1) … сила тока.
2) … электродвижущая сила.
3) … напряжение.
4) … сопротивление.

6. Режим короткого замыкания в цепи возникает, когда …

1) … внешнее сопротивление цепи R => 0.
2) … внешнее сопротивление цепи R => ∞.
3) … внутреннее сопротивление источника тока очень мало.
4) … внешнее сопротивление цепи равно внутреннему сопротивлению источника.

7. Параллельно или последовательно с электрическим бытовым прибором в квартире включают плавкий предохранитель на электрическом щите?

1) Независимо от электрического прибора.
2) Параллельно.
3) Последовательно.
4) Среди ответов нет верного.

8. Электрическая цепь состоит из источника тока, амперметра и лампы. Изменится ли показание амперметра, если в цепь включить параллельно ещё такую же лампу? Выберите правильное утверждение.

1) Уменьшится, так как сопротивление цепи возрастет.
2) Увеличится, так как сопротивление цепи уменьшится.
3) Не изменится.

9. Мощность электрического тока на участке цепи определяется следующим выражением:

1) I·U. 2) I·R. 3) I·U·t. 4) U / R.

10. Последовательно соединенные медная и стальная проволоки одинаковой длины и сечения подключены к аккумулятору (удельное сопротивление меди $1{,}7\cdot10^{-8}$ Ом·м; удельноесопротивлениестали $12\cdot10^{-8}$ Ом·м). Вкакойизнихвыделитсябольшееколичествотеплотызаодинаковоевремя?

1) В медной.

2) В стальной.
3) Количество теплоты одинаковое.

11. Вопрос с профессиональной направленностью:
Почему в помещениях парикмахерских розетки, осветительные лампы соединены параллельно?

ОТВЕТЫ

1	2	3	4	5	6	7	8	9	10
3	2	3	2	2	1	3	2	1	2

Тест по теме «Ток в различных средах»

1. Электрический ток в газах создается движением …
1) … свободных электронов.
2) … молекул.
3) … электронов, положительных и отрицательных ионов.
4) … дырок.

2. Укажите прибор, в котором можно создать ток только в одном направлении.
1) Конденсатор.
2) Резистор.
3) Полупроводниковый диод.
4) Катушка.

3. Выберите наиболее правильное продолжение фразы: «Термоэлектронная эмиссия – это явление, при котором …»
1) … молекулы вылетают с поверхности проводника.
2) … свободные электроны вылетают с поверхности проводника.
3) … проводник заряжается, поглощая заряженные частицы из окружающей среды.
4) … свободные электроны вылетают с поверхности нагретого проводника.

4. Как называется процесс выделения вещества на электродах?
1) Электролитическая диссоциация.
2) Ионизация.
3) Электролиз.
4) Электризация.

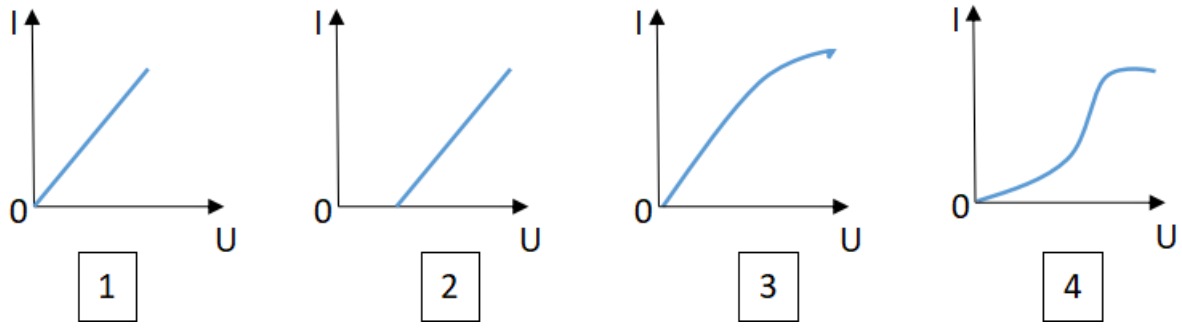

5.
Какой из графиков соответствует вольтамперной характеристике электролитов?

6. В четырёхвалентный кремний добавили в первом опыте пятивалентный химический элемент, а во втором – трёхвалентный элемент. Каким типом проводимости в основном будет обладать полупроводник в каждом случае?

1) В первом – дырочной, во втором – электронной.
2) В первом – электронной, во втором – дырочной.
3) В обоих случаях электронной.
4) В обоих случаях дырочной.

7. Какой из графиков соответствует зависимости удельного сопротивления полупроводников от температуры?

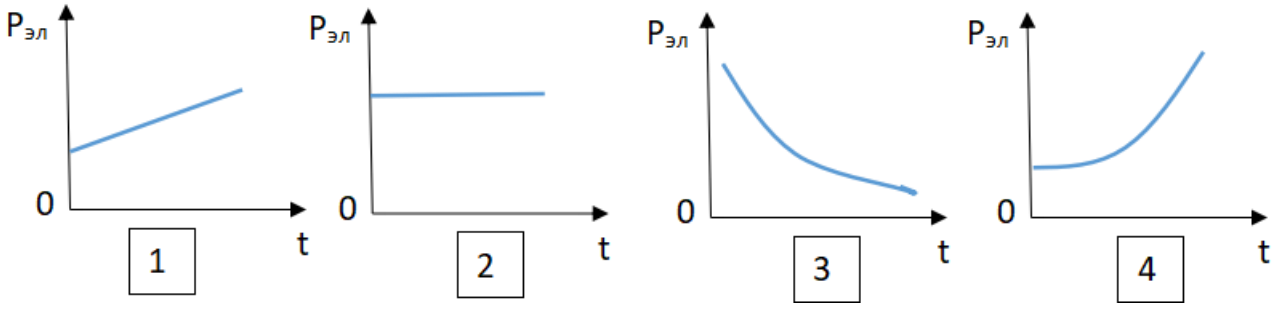

8. Какие частицы являются носителями заряда в металлах?

1) Свободные электроны.
2) Электроны и ионы.
3) Ионы.
4) Свободные электроны и дырки.

9. Как называется процесс создания носителей заряда в жидкостях?

1) Электролитическая диссоциация.
2) Ионизация.
3) Электролиз.
4) Электризация.

10. В донорных полупроводниках электропроводность…

1) … собственная.
2) … примесная электронная.
3) … примесная дырочная.
4) … эти материалы плохо проводят электрический ток.

11. Вопрос с профессиональной направленностью:

В линиях электропередач высокого напряжения для уменьшения потерь электроэнергии на коронный разряд используют провода большого диаметра. Объясните, почему так делают?

ОТВЕТЫ

1	2	3	4	5	6	7	8	9	10
3	3	4	3	2	2	3	1	1	2

Тест по теме «Электромагнитная индукция»

1. Какое из приведенных ниже выражений характеризует понятие электромагнитной индукции?

1) Явление, характеризующее действие магнитного поля на движущийся заряд.
2) Явление возникновения в замкнутом контуре электрического тока при изменении магнитного поля.
3) Явление возникновения ЭДС в проводнике под действием магнитного поля.

2. С помощью какого правила определяют направление индукционного тока?

1) Правило правой руки.
2) Правило буравчика.
3) Правило левой руки.
4) Правило Ленца.

3. Укажите все правильные утверждения, которые отражают сущность явления электромагнитной индукции: «В замкнутом контуре электрический ток появляется…»

1) … если магнитный поток не меняется.
2) … если магнитный поток не равен нулю.
3) … при увеличении магнитного потока.
4) … при уменьшении магнитного потока.

4. Что определяется скоростью изменения магнитного потока через контур?

1) Индуктивность контура.
2) ЭДС индукции.
3) Магнитная индукция.
4) Индукционный ток.

5. На рисунке показан график зависимости магнитного потока, пронизывающего контур, от времени. На каком из участков графика в контуре не возникает ЭДС индукции?

1) 1.
2) 2.
3) 3.
4) 4.

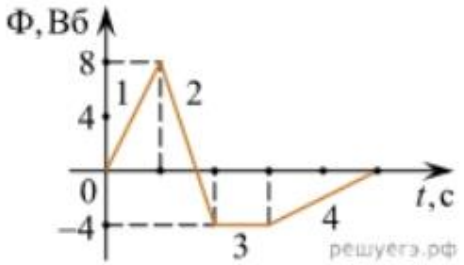

6. Сила тока в катушке увеличилась в 2 раза. Выберите верное утверждение.
1) Индуктивность катушки увеличилась в 2 раза.
2) Индуктивность катушки увеличилась в √2 раз.
3) Индуктивность катушки уменьшилась в 2 раза.
4) Индуктивность катушки не изменилась.

7. Как уменьшить индуктивность катушки с железным сердечником при условии, что габариты обмотки (её длина и поперечное сечение) останутся неизменными?
1) Уменьшить число витков.
2) Уменьшить силу тока в катушке.
3) Вынуть железный сердечник.
4) Увеличить толщину обмотки.

8. Сила тока в контуре увеличилась в два раза. Укажите все правильные утверждения.
1) Энергия магнитного поля контура увеличилась в два раза.
2) Энергия магнитного поля контура увеличилась в четыре раза.
3) Энергия магнитного поля контура уменьшилась в два раза.
4) Энергия магнитного поля контура не изменилась.

9. Какое математическое выражение служит для определения ЭДС индукции в замкнутом контуре?
1) $-\Delta\Phi / \Delta t$. 2) $IB\Delta l\sin\alpha$. 3) $BS\cos\alpha$. 4) $BS\sin\alpha$.

10. Как нужно изменить индуктивность контура, для того чтобы при неизменном значении силы тока в нём энергия магнитного поля уменьшилась в 4 раза.
1) Уменьшить в два раза.
2) Уменьшить в четыре раза.
3) Увеличить в два раза.
4) Увеличить в четыре раза.

11. Вопрос с профессиональной направленностью:
При помощи реостата медленно и плавно производится отключение от питающей сети мощных электродвигателей. Объясните, почему так делают?

ОТВЕТЫ

1	2	3	4	5	6	7	8	9	10
2	4	34	2	3	4	3	2	1	2

Тест по теме «Механические колебания и волны»

1. Какие из перечисленных ниже колебаний являются вынужденными? Укажите все правильные ответы.

1) Колебания качелей, раскачиваемых человеком, стоящим на земле.
2) Колебания груза на нити, один раз отведенного от положения равновесия и отпущенного.
3) Колебания диффузора громкоговорителя во время работы приемника.
4) Колебания чашек рычажных весов.

2. Подвешенный на нити груз совершает малые колебания. Считая колебания незатухающими, укажите все правильные утверждения.

1) Чем длиннее нить, тем больше частота колебаний.
2) При прохождении грузом положения равновесия скорость груза максимальна.
3) Груз совершает периодическое движение.
4) Период колебаний зависит от амплитуды.

3. На рисунке представлен график зависимости потенциальной энергии математического маятника (относительно положения его равновесия) от времени. Какова полная механическая энергия маятника в момент времени, соответствующий на графике точке *D*?

1) 4 Дж.
2) 16 Дж.
3) 12 Дж.
4) 8 Дж.

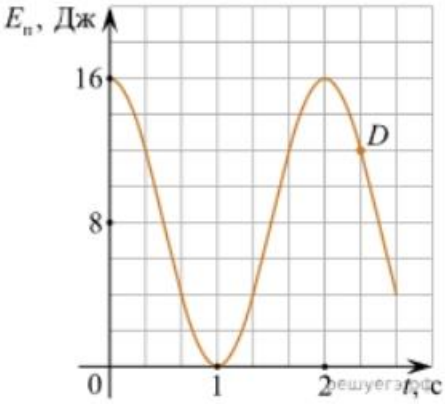

4. Какое из приведенных ниже выражений определяет период колебаний груза массой *m*, подвешенного на пружине жесткостью *k*?

1) $2\pi\sqrt{\frac{l}{g}}$. 2) $2\pi\sqrt{\frac{m}{k}}$. 3) $\frac{1}{2\pi}\sqrt{\frac{g}{l}}$, 4) $\frac{1}{2\pi}\sqrt{\frac{k}{m}}$.

5. Как изменится период колебаний математического маятника, если длину нити уменьшить в 4 раза?

1) Уменьшится в 4 раза. 3) Увеличится в 4 раза.
2) Уменьшится в 2 раза. 4) Увеличится в 2 раза.

6. На рисунке приведен график гармонических колебаний. Укажите все правильные утверждения.

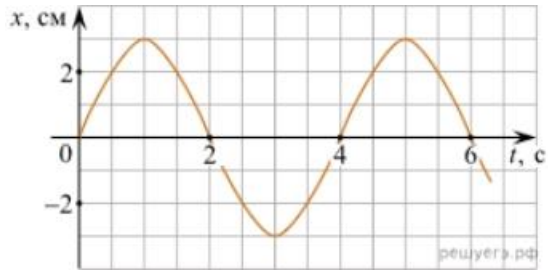

1) Амплитуда колебаний равна 2 см.
2) Период колебаний 2 с.
3) Частота колебаний 0,5 Гц.
4) Среди утверждений нет правильного

7. Каковы свойства продольных волн? Укажите все правильные ответы.
1) Эти волны могут распространяться только в газах.
2) Продольные волны представляют собой чередующиеся разрежения и сжатия.
3) Частицы среды при колебаниях смещаются вдоль направления распространения волны.
4) Частицы среды при колебаниях смещаются перпендикулярно направлению распространения волны.

8. В каких направлениях совершаются колебания в поперечной волне?
1) Во всех направлениях.
2) Только по направлению распространения волны.
3) Только перпендикулярно распространению волны.
4) Среди ответов нет правильного.

9. Установите соответствие между примерами и физическими явлениями, которые эти примеры иллюстрируют. Для каждого примера проявления физических явлений из первого столбца подберите соответствующее название физического явления из второго столбца.

ПРИМЕРЫ	ФИЗИЧЕСКИЕ ЯВЛЕНИЯ
А) эховлесу	1) Огибаниезвукомпрепятствия
Б) определениеглубиныводоёмаспомощьюнавигационн огоприбора эхолота	2) Явлениеполноговнутреннегоотр ажения
	3) Отражениесвета
	4) Отражениезвукаотпрепятствия

Запишите в таблицу выбранные цифры под соответствующими буквами.

А	Б

10. Какие из перечисленных ниже волн являются поперечными? Укажите все правильные ответы.
1) Волны на поверхности воды.
2) Звуковые волны в газах.
3) Радиоволны.

ОТВЕТЫ

1	2	3	4	5	6	7	8	9	10
1	23	2	2	2	4	23	3	44	13

Тест по теме «Электромагнитные колебания и волны»

1. Как изменится частота электромагнитных колебаний в контуре L – C, если электроемкость конденсатора увеличить в четыре раза?

1) Увеличится в 4 раза.
2) Увеличится в 2 раза.
3) Уменьшится в 4 раза.
4) Уменьшится в 2 раза.

2. Значение силы переменного тока, измеренное в амперах, задано уравнением $i = 0{,}1\sin 100\pi t$. Укажите все правильные утверждения.

1) Амплитуда силы тока 0,1 А.
2) Период равен 100 с.
3) Частота равна 50 Гц.
4) Циклическая частота 100 рад/с.

3. Даны следующие зависимости величин:

А) Зависимость напряжения на конденсаторе от времени в колебательном контуре, учитывая, что в начальный момент времени конденсатор заряжен.

Б) Зависимость энергии магнитного поля катушки с током от силы тока в ней.

В) Зависимость длины излучаемой электромагнитной волны от частоты колебаний заряда в металлическом проводнике.

Установите соответствие между этими зависимостями и видами графиков, обозначенных цифрами 1−5. ДлякаждойзависимостиА−Вподберитесоответствующийвидграфикаизапишите в таблицу выбранные цифры под соответствующими буквами.

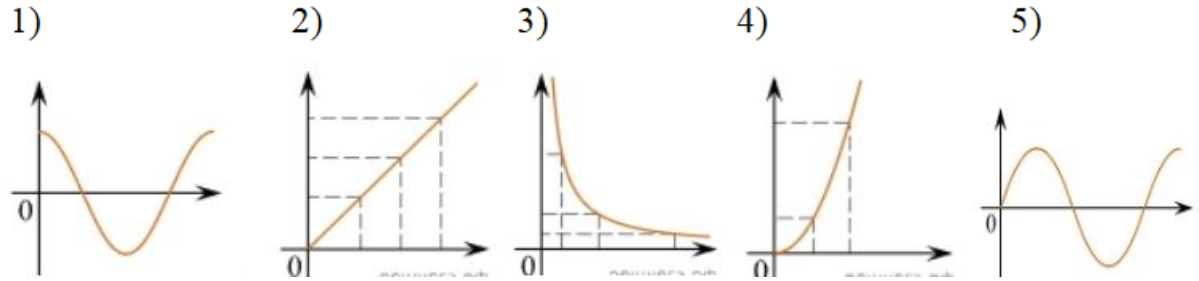

А	Б	В

Ответ:

4. Каким образом осуществляется передача электрической энергии из первичной обмотки трансформатора во вторичную обмотку? Укажите все правильные ответы.

1) Через провода, соединяющие обмотки трансформатора.
2) С помощью переменного магнитного поля, пронизывающего обе катушки.
3) С помощью электромагнитных волн.
4) Правильных ответов нет.

5. Какое из приведенных ниже выражений определяет понятие электромагнитное поле?

1) Процесс распространения колебаний заряженных частиц.

2) Особая форма материи, осуществляющая взаимодействие между заряженными частицами.

3) Особая форма материи, осуществляющая взаимодействие между любыми частицами.

6. В первичной обмотке трансформатора 100 витков, во вторичной обмотке – 20. Выберите все правильные утверждения.

1) Трансформатор является понижающим.

2) Трансформатор является повышающим.

3) Коэффициент трансформации равен 0,2.

4) Коэффициент трансформации равен 5.

7. Продолжите фразу: «Электромагнитная волна – это …». Выберите все правильные утверждения.

1) … процесс распространения колебаний электрической напряженности и магнитной индукции.

2) … кратчайшее расстояние между двумя точками, колеблющимися в одинаковых фазах.

3) … процесс распространения колебаний заряженных частиц.

4) … процесс распространения электромагнитного поля от источника колебаний в пространстве.

8. Как ориентированы векторы магнитной индукции $\vec{\mathbf{B}}$, электрической напряженности $\vec{\mathbf{E}}$ и скорости $\vec{\mathbf{c}}$ по отношению друг к другу в электромагнитной волне?

1) $\mathbf{B}^{\rightarrow} \perp \mathbf{E}^{\rightarrow} \parallel \mathbf{c}^{\rightarrow}$. 2) $\mathbf{B}^{\rightarrow} \perp \mathbf{C}^{\rightarrow}; E^{\rightarrow} \parallel c^{\rightarrow}$. 3) $\vec{\mathbf{B}} \perp \vec{\mathbf{E}} \perp \vec{\mathbf{c}}$. 4) $\vec{\mathbf{B}} \parallel \vec{\mathbf{E}} \parallel \vec{\mathbf{c}}$.

9. Какое устройство в приёмнике Попова регистрирует приём электромагнитных волн?

1) Электромагнитное реле.

2) Когерер.

3) Антенна.

4) Электрический звонок.

10. Продолжите фразу: «Процесс наложения колебаний одной частоты на колебания другой частоты называется…».

1) … радиосвязь.

2) … детектирование.

3) … модуляция.

4) … радиолокация.

11.Вопрос с профессиональной направленностью:

В некоторых помещениях осветительные приспособления располагаются так, что создаваемый ими свет не попадает на рабочие места, а освещает потолок помещения. Какие преимущества представляет такой способ освещения?

11. ОТВЕТЫ

1	2	3	4	5	6	7	8	9	10
4	13	А – 1 Б – 4 В – 3	2	2	14	134	3	2	3

Тест по теме «Природа света»

1. При переходе света из вакуума в прозрачную среду с абсолютным показателем преломления *n = 2* скорость распространения…

1) … увеличивается в 2 раза.
2) … остается неизменной.
3) … уменьшается в 2 раза.

2. Для нахождения предельного угла при падении луча на границу «стекло-вода» нужно использовать формулу. Выберите все правильные ответы.

1) $\sin \alpha_o = n_c / n_в$. 2) $\sin \alpha_o = n_c \cdot n_в$. 3) $\sin \alpha_o = n_в / n_c$.

3. Луч переходит из воды в скипидар. На каком из рисунков правильно изображен ход луча? Показатель преломления воды 1,33, скипидара – 1,6.

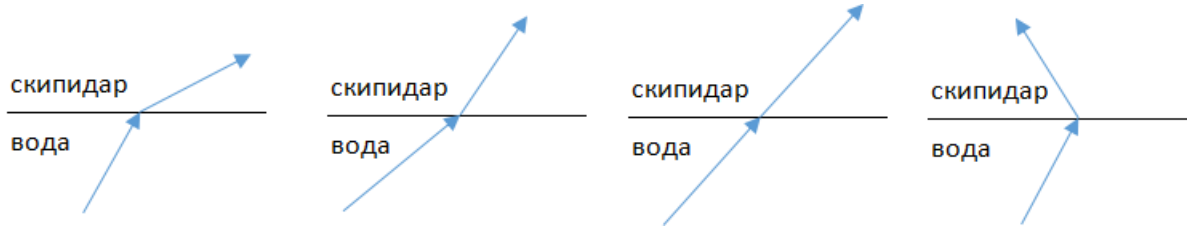

1) 2) 3) 4)

4. Угол падения луча равен 50º. Уголотраженияслучаравен.

1) 90º. 2) 40º. 3) 50º. 4) 100º.

5. Предмет находится между фокусом F и двойным фокусом 2F рассеивающей линзы. Изображение предмета …

1) … мнимое, прямое, увеличенное.
2) … действительное, перевернутое, увеличенное.
3) … мнимое, прямое, уменьшенное.
4) … действительное, перевернутое, уменьшенное.

6. Световой пучок выходит из стекла в воздух. Что происходит при этом с частотой электромагнитных колебаний в световой волне и скоростью их распространения?

1) Частота и скорость увеличиваются.
2) Частота – увеличивается, скорость – уменьшается.
3) Частота и скорость не изменяются.
4) Частота – не изменяется, скорость – увеличивается.

7. Физическая величина, равная отношению светового потока, падающего на поверхность, к площади этой поверхности, называется …
1) … силой света.
2) … яркостью.
3) … освещенностью.
4) … телесным углом.

8. Укажите точку, в которой находится изображение светящейся точки S (см. рисунок), создаваемое тонкой собирающей линзой.
1) 1.
2) 2.
3) 3.
4) 4.

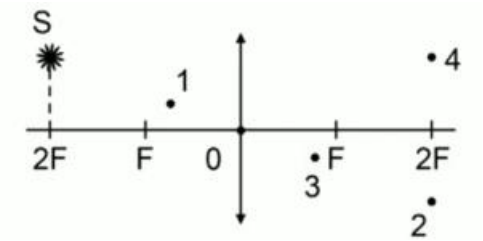

9. Установите соответствие между оптическим прибором (устройством) и типом изображения, полученным с его помощью.

Оптические приборы	Тип изображения
А) Мультимедиа проектор Б) Дверной глазок	1) Уменьшенное, мнимое. 2) Увеличенное, действительное. 3) Уменьшенное, действительное. 4) Увеличенное, мнимое.

А	Б

О т в е т:

10. Выберите все верные утверждения о физических явлениях, величинах и закономерностях. Запишите цифры, под которыми они указаны.
1) В однородной прозрачной среде свет распространяется прямолинейно.
2) При преломлении электромагнитных волн на границе двух сред скорость волны не изменяется.
3) Явление полного внутреннего отражения может наблюдаться только при углах падения больше предельного.
4) Собирающая линза может давать как мнимые, так и действительные изображения.

11. Вопрос с профессиональной направленностью:

Объясните, какие преимущества представляет способ освещения помещений, при котором осветительные приборы размещают таким образом, что свет, создаваемый ими, не попадает на рабочие места, а освещает белый потолок помещения.

ОТВЕТЫ

1	2	3	4	5	6	7	8	9	10
3	3	2	3	3	4	3	2	21	134

Тест по теме «Волновые свойства света»

1. Как изменится длина волны красного излучения при переходе света из воздуха в воду?

1) Уменьшается.
2) Увеличивается.
3) Не изменяется.

2. Какое из приведенных ниже выражений определяет понятие интерференции?

1) Наложение когерентных волн.
2) Разложение света в спектр при преломлении.
3) Огибание волной препятствий.

3. Какое из наблюдаемых явлений объясняется дифракцией света?

1) Излучение света лампой накаливания.
2) Радужная окраска компакт-дисков.
3) Радужная окраска тонких мыльных пленок.
4) Радуга.

4. Свет какого цвета меньше других отклоняется призмой спектроскопа?

1) Фиолетового.
2) Синего.
3) Зеленого.
4) Красного.

5. Какие из приведенных ниже выражений являются условием наблюдения главных максимумов в спектре дифракционной решетки с периодом d под углом φ?

1) $d \sin \varphi = k \lambda$.
2) $d \cos \varphi = k \lambda$.
3) $d \sin \varphi = (2k + 1) \lambda/2$.
4) $d \cos \varphi = (2k + 1) \lambda/2$.

6. Какое явление доказывает поперечность световых волн?

1) Дисперсия.
2) Отражение.
3) Преломление.
4) Поляризация.

7. Какое из перечисленных ниже электромагнитных излучений имеет наименьшую длину волны?

1) Излучение видимого спектра.
2) Радиоволны.
3) Рентгеновское излучение.
4) Ультрафиолетовое излучение.

8. Укажите все правильные ответы. Две световые волны являются когерентными, если …
1) … волны имеют одинаковую частоту ($\nu_1 = \nu_2$).
2) … волны имеют постоянную разность фаз колебаний ($\Delta\varphi = const$).
3) … волны имеют одинаковую частоту ($\nu_1 = \nu_2$) и постоянную разность фаз колебаний ($\Delta\varphi = const$).
4) … волны имеют разную частоту ($\nu_1 \neq \nu_2$) и постоянную разность фаз колебаний ($\Delta\varphi = const$).

9. Какие из излучений используются для исследования структуры и внутренних дефектов твердых тел и конструкций?

А. Ультрафиолетовое излучение.	1) А.
Б. Гамма-излучение.	2) А и Б.
В. Видимое излучение.	3) А, В, Д.
Г. Радиоволны.	4) Б и Д.
Д. Рентгеновское излучение.	

10. На рисунке приведены спектр поглощения разреженных атомарных паров неизвестного газа (в середине) и спектры поглощения паров водорода и гелия. В состав неизвестного газа входит(-ят) …

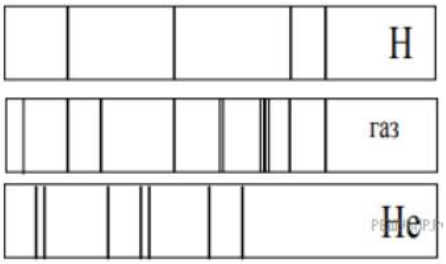

1) Водород.
2) Гелий.
3) Водород и гелий.
4) Ни водород, ни гелий.

11. Два автомобиля движутся в одном и том же направлении со скоростями υ_1 и υ_2 относительно поверхности Земли. Скорость света от фар первого автомобиля в системе отсчета, связанной с другим автомобилем, равна:
1) $c + (\upsilon_1 + \upsilon_2)$.
2) c.
3) $c + (\upsilon_1 - \upsilon_2)$.

12. Вопрос с профессиональной направленностью:
Объясните, почему ртутные лампы ультрафиолетового излучения делают из кварцевого, а не из обычного стекла?

ОТВЕТЫ

1	2	3	4	5	6	7	8	9	10	11
1	1	2	4	1	4	3	3	4	1	2

Тест по теме «Физика атома и атомного ядра»

1. Какие из приведенных ниже утверждений соответствуют смыслу постулатов Бора? Укажите все правильные ответы.

1) В атоме электроны движутся по круговым орбитам и излучают при этом электромагнитные волны.

2) Атом может находится только в одном из стационарных состояний, в стационарных состояниях атом энергию не излучает.

3) Атом состоит из ядра и электронов. Заряд и почти вся масса атома сосредоточены в ядре.

4) При переходе из одного стационарного состояния в другое атом поглощает или излучает квант электромагнитного излучения.

2. Какое явление используется в оптических квантовых генераторах?

А. Спонтанное излучение.

Б. Индуцированное излучение.

1) А. 2) Б. 3) А и Б. 4) Ни А, ни Б.

3. Сравните силы ядерного притяжения между двумя протонами F_{pp}, двумя нейтронами F_{nn}, а также между протоном и нейтроном F_{pn}.

1) $F_{nn}>F_{pn}>F_{pp}$. 3) $F_{nn}\approx F_{pn}\approx F_{pp}$.

2) $F_{nn}\approx F_{pn}>F_{pp}$. 4) $F_{nn}<F_{pn}<F_{pp}$.

4. Что означают цифры у ядра атома азота $^{14}{}_{7}N$?

1) 7 – число электронов, 14 – число протонов.

2) 7 – число нейтронов, 14 – число протонов.

3) 7 – число протонов, 14 – число протонов и нейтронов.

4) 7 – число электронов, 14 – число нейтронов.

5. Что представляет собой β-излучение?

1) Поток быстрых электронов.

2) Поток нейтронов.

3) Поток квантов электромагнитного излучения.

4) Поток ядер гелия.

6. Элемент $^{A}{}_{Z}X$ испытал α-распад. Какойзарядимассовоечислобудетуновогоэлементa Y?

1) $^{A}{}_{Z+1}Y$. 2) $^{A-4}{}_{Z-2}Y$. 3) $^{A-2}{}_{Z-4}Y$. 4) $^{A}{}_{Z-1}Y$.

7. Каково соотношение между массой радиоактивного ядра $M_я$ и суммой масс свободных протонов $Z \cdot m_p$ и свободных нейтронов $N \cdot m_n$, из которых составлено это ядро. Укажите правильный ответ.

1) $M_я = (Z \cdot m_p + N \cdot m_n)$.
2) $M_я < (Z \cdot m_p + N \cdot m_n)$.
3) $M_я > (Z \cdot m_p + N \cdot m_n)$.

8. Дан график зависимости числа не распавшихся ядер эрбия от времени. Каков период полураспада этого изотопа эрбия?

1) 50 ч.
2) 100 ч.
3) 150 ч.
4) 200 ч.

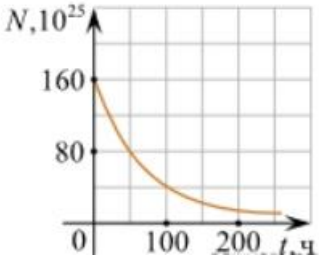

9. Какое из приведенных ниже выражений определяет понятие цепная ядерная реакция? Укажите правильный ответ.

1) Процесс самопроизвольного распада ядер атомов некоторых химических элементов.
2) Процесс превращения атомных ядер, происходящий в результате их взаимодействия с элементарными частицами или друг с другом.
3) Процесс деления атомных ядер некоторых химических элементов, происходящий под действием нейтронов, образующихся в процессе самой ядерной реакции.

10. Какие вещества из перечисленных ниже могут быть использованы в ядерных реакторах в качестве замедлителей нейтронов?

А. Графит. Б. Кадмий. В. Тяжелая вода. Г. Бор.

1) А и В. 3) А и Б.
2) Б и Г. 4) В и Г.

11. Вопрос с профессиональной направленностью:

Для изготовления сердечников трансформаторов используют высоколегированные стали, предварительно прошедшие термомеханическую обработку. Почему не используют обычную сталь и для чего необходима термомеханическая обработка?

ОТВЕТЫ

1	2	3	4	5	6	7	8	9	10
24	2	3	3	1	2	2	1	3	1

2.1.3Оценочные материалы для рубежного контроля

Критерии оценки контрольных работ.

Рекомендуемые критерии оценивания **расчётных задач**:

2 балла – приведено полное правильное решение, включающее следующие элементы:

- Записаны физические закономерности, применение которых необходимо и достаточно для решения данной задачи;
- Выполнены необходимые математические преобразования и расчёты (возможно, с вычислением промежуточных величин, то есть «по частям»), получен верный ответ (при округлении погрешность не должна превышать 10%) с указанием единиц измерения.

1 балл – приведено неполное решение или решение, содержащее ошибки:

- Записаны не все необходимые для решения физические закономерности;

ИЛИ

- В записях необходимых для решения физических закономерностях имеются ошибки;

ИЛИ

Допущены ошибки в математических преобразованиях или вычислениях.

0 баллов – решение задачи полностью неверное ИЛИ отсутствует.

Рекомендуемые критерии оценивания **качественных задач**:

2 балла – приведено полное правильное решение, включающее следующие элементы:

- Верно указаны физические явления ИЛИ записаны физические закономерности, применение которых необходимо и достаточно для решения данной задачи;
- Проведены корректные рассуждения, сформулирован верный ответ.

1 балл – приведено неполное решение или решение, содержащее ошибки:

- Записаны не все необходимые для решения физические явления и закономерности;

ИЛИ

- Верно указаны все необходимые для решения физические явления и закономерности, но ответ явно не сформулирован;

ИЛИ

Указаны физические явления и закономерности, но в приведённых рассуждениях содержатся ошибки.

0 баллов – решение задачи полностью неверное ИЛИ отсутствует.

Перевод в пятибалльную систему:

«5»	«4»	«3»	«2»
11-12 баллов	8-10 баллов	5-7 баллов	4 баллов и меньше

Контрольная работа №1
«Молекулярная физика и термодинамика»

Задача №1. Определите среднюю квадратичную скорость молекул одноатомного идеального газа, находящегося под давлением $5 \cdot 10^5$ Па, если концентрация молекул 10^{25} $м^{-3}$, а масса каждой молекулы $3 \cdot 10^{-26}$ кг

Задача №2. Определите массу азота в сосуде, емкостью $4 \cdot 10^{-3}$ м ^{3},наполненного под давлением $2\ 10^5$ Па при температуре 30°С.

Задача №3. За цикл тепловая машина получает от нагревателя количество теплоты 300 Дж и отдает холодильнику 250 Дж. Чему равен КПД тепловой машины?

Задачи с профессиональной направленностью

1. При горении электролампы температура наполняющего её инертного газа повышается до 310°С, а давление до 0,15 МПа. Под каким давлением должны наполняться лампы инертным газом, если температура при наполнении равна 160 °С..

2.В сырых и особо сырых помещениях (относительная влажность воздуха более 75%) при монтаже электропроводки должны применяться провода, кабели и конструкции их крепления повышенной влагостойкости. Определите, относится ли данное помещение к помещениям с повышенной опасностью, если при температуре 28°С плотность водяного пара равна 21,76 г/$м^3$, а плотность насыщенного пара при этой же температуре 27,2 г/$м^3$

Контрольная работа №2
«Электрическое поле. Законы постоянного тока. Магнитное поле. Электромагнитная индукция»

Задача №1.Какое сечение должен иметь медный провод, если при силе протекающего по нему тока 160 А потеря напряжения составляет 8 В. Длина провода, подводящего ток к потребителю, равна 70 м.

Задача №2.Определите напряжение на зажимах батареи, еслидва элемента соединены параллельно. Первый элемент имеет ЭДС 2 В и внутреннее сопротивление 0,6 Ом. Второй имеет ЭДС 1,5 В и внутреннее сопротивление 0,4 Ом

Задача №3.Сколько витков должна содержать катушка с площадью поперечного сечения 50 $см^2$. При изменении магнитной индукции катушки от 0,2 до 0,3 Тл в течение 4 мс в ней возбуждалась ЭДС 10 В.

Задача № 4. Сила Лоренца, действующая на электрон, равна $5 \cdot 10^{-13}$ Н. С каким ускорением движется электрон в однородном магнитном поле (вектор магнитной индукции перпендикулярен вектору скорости) с индукцией 0,06 Тл.

Задачи с профессиональной направленностью

1. Катодные лучи (поток электронов) отклоняются магнитными полями в электронно-лучевой трубке. Определите радиус отклонения электрона, влетающего в магнитное поле, индукция которого 30 мТл, перпендикулярно линиям индукции со скоростью 110 см/с.

Контрольная работа № 3

«Колебания и волны. Оптика»

Задача №1. Ток в колебательном контуре изменяется со временем по закону i = 0,02cos628t. Найти индуктивность контура, зная, что емкость его конденсатора $2 \cdot 10^{-5}$ Ф.

Задача №2. Трансформатор, содержащий в первичной обмотке 720 витков, повышает напряжение с 220 В до 600 В. Определите коэффициент трансформации, число витков во вторичной обмотке? Выясните, в какой обмотке провод имеет большую площадь поперечного сечения?

Задача №3. В цепь переменного тока со стандартной частотой включена катушка с индуктивностью 80 мГн. Найдите действующее значение напряжения на данном участке цепи, если действующее значение силы тока равно 2 А.

Задача № 4. Длина волны желтого света паров натрия в воздухе равна 589нм. Какова длина волны желтого света паров натрия в стекле с показателем преломления 1,56.

Задачи с профессиональной направленностью

1. Определите световую отдачу электрической лампы, если она излучает 110 Дж энергии в минуту, а её мощность равна 80 Вт.

2. Освещенность зала парикмахерской 20 $м^2$ равна 150 лк. Определите, какое количество светодиодных ламп необходимо для освещения данногозала, если величина светового потока одной лампы 600 лм.

3.К городской сети переменного тока с напряжением 127 В присоединена цепь, состоящая из последовательно включенных активного сопротивления 100 Ом и конденсатора. Определите емкость конденсатора, если амплитудное значение силы тока в цепи 1,4 А.

Контрольная работа № 4
«Квантовая физика»

Задача №1. Рассчитайте энергию связи и удельную энергию связи, дефект массы ядра углерода $^{12}_{6}C$.

Задача №2. К вакуумному фотоэлементу, у которого катод выполнен из цезия, приложено запирающее напряжение 3 В. При какой длине волны падающего на катод света появится фототок.

Задача № 3. Определите дефект массы, энергию связи и удельную энергию ядра азота $^{14}_{7}N$.

Задача № 4. Ядро изотопа висмута $^{211}_{83}Bi$ получилось из другого ядра после последовательных α- иβ-распадов. Чтоэтозаядро?

Задачи с профессиональной направленностью

1. Электронно-оптический преобразователь (ЭОП) – это вакуумный прибор, который используется для увеличения яркости изображения слабых источников света. Падающие на катод фотоны в ЭОП выбивают из него фотоэлектроны, которые ускоряются разностью потенциалов и бомбардируют флуоресцирующий экран, который при попадании каждого

электрона рождает вспышку света. Определить кинетическую энергию фотоэлектронов, если работа выхода электронов равна 2 эВ, если длина волны падающего на катод света равна 840 нм.

2. Какая наименьшая длина волны испускаемого рентгеновской трубкой излучения, если она работает при напряжении 70 кВ.

2.2. Задания для промежуточной аттестации

Промежуточная аттестация (дифференцированный зачет) проводится по окончании изучения общеобразовательной дисциплины «Физика».

Задачей проведения проверочной работы является определение уровня усвоения содержания образования по общеобразовательной дисциплине «Физика».

2.2.1 Оценочные материалы для промежуточной аттестации

Критерии оценки

За каждое задание **первой части** выставляется 1 балл при правильном ответе, 0 баллов – при неправильном ответе.

Задание **№19второй части**:

2 балла – приведено полное правильное решение, включающее следующие элементы:

- Записаны физические закономерности, применение которых необходимо и достаточно для решения данной задачи;
- Выполнены необходимые математические преобразования и расчёты (возможно, с вычислением промежуточных величин, то есть «по частям»), получен верный ответ (при округлении погрешность не должна превышать 10%) с указанием единиц измерения.

1 балл – приведено неполное решение или решение, содержащее ошибки:

- Записаны не все необходимые для решения физические закономерности;

ИЛИ

- В записях необходимых для решения физических закономерностях имеются ошибки;

ИЛИ

- Допущены ошибки в математических преобразованиях или вычислениях.

0 баллов – решение задачи полностью неверное ИЛИ отсутствует.

Задание **№20второй части**:

2 балла – приведено полное правильное решение, включающее следующие элементы:

- Верно указаны физические явления ИЛИ записаны физические закономерности, применение которых необходимо и достаточно для решения данной задачи;
- Проведены корректные рассуждения, сформулирован верный ответ.

1 балл – приведено неполное решение или решение, содержащее ошибки:

- Записаны не все необходимые для решения физические явления и закономерности;

ИЛИ

- Верно указаны все необходимые для решения физические явления и закономерности, но ответ явно не сформулирован;

ИЛИ

- Указаны физические явления и закономерности, но в приведённых рассуждениях содержатся ошибки.

0 баллов – решение задачи полностью неверное ИЛИ отсутствует.

Перевод в пятибалльную систему:

«5»	«4»	«3»	«2»

19-22 баллов	15-18 баллов	11-14 баллов	10 баллов и меньше

Задание для дифференцированного зачета

Часть 1

(напишите краткое решение задачи и выберите букву правильного ответа):

1.

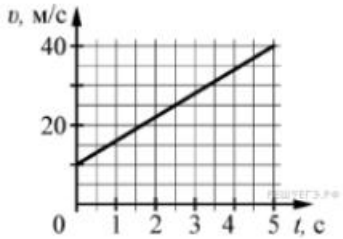

На графике приведена зависимость скорости тела от времени при прямолинейном движении. Определите по графику ускорение тела. (Ответ дайте в метрах в секунду в квадрате.)

А. 6 м/с^{2}Б. 8 м/с^{2}В. 15 м/с^{2}Г. 20 м/с^2

2. Автомобиль массой 1000 кг движется с постоянной по модулю скоростью по выпуклому мосту. Автомобиль действует на мост в верхней его точке с силой F = 9000 Н. Сила, с которой мост действует на автомобиль, равна

А) 1000 Н и направлена вертикально вверх

Б) 19 000 Н и направлена вертикально вниз

В) 9000 Н и направлена вертикально вниз

Г) 9000 Н и направлена вертикально вверх

3. С балкона с высоты 5 м бросают мяч в горизонтальном направлении. Начальная скорость мяча 7 м/с, его масса 0,1 кг. Через 2 с после броска импульс мяча приблизительно равен

А) 0

Б) 2,1 кг•м/с

В) 0,7 кг•м/с

Г) 1,4 кг•м/с

4. В каких телах — твёрдых, жидких или газообразных — происходит диффузия?

А) только в жидких

Б) только в твёрдых

В) только в газообразных

Г) в твёрдых, жидких и газообразных

5. Сколько молекул содержится в капле воды массой 0,3 г?

А. 10^{23}Б. 10^{22} В. $3 \cdot 10^{22}$Г. $6 \cdot 10^{22}$

6. Как изменится давление разреженного одноатомного газа, если при увеличении концентрации молекул газа в 3 раза его абсолютная температура увеличится в 2 раза?

А) увеличится в 6 раз

Б) увеличится в 2 раза

В) уменьшится в 6 раз

Г) останется без изменений

7.

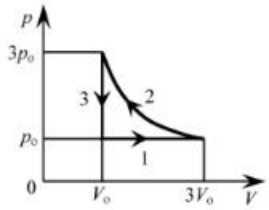

На*pT*–диаграмме отображена последовательность трёх процессов (1 → 2 → 3) изменениясостояния 2 мольидеальногогаза. Какова эта последовательность процессов в газе?

А) расширение →нагревание→охлаждение

Б) расширение →охлаждение→сжатиеприпостоянноймпературе

В) нагревание →сжатиеприпостоянноймпературе→охлаждение

Г) нагревание →расширение→сжатие

8. Относительная влажность воздуха в закрытом сосуде 30%. Какой станет относительная влажность, если объём сосуда при неизменной температуре уменьшить в 3 раза?

А) 60% Б) 90% В) 120% Г) 100%

9.

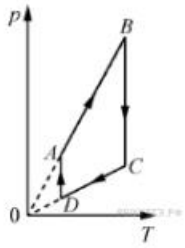

На рисунке представлен график циклического процесса, проведённого с одноатомным идеальным газом. На каком из участков внутренняя энергия газа увеличивалась? Количество вещества газа постоянно.

А)*DA;* Б)*BC;*В)*AB;*Г)*CD*

10. Силы электростатического взаимодействия между двумя точечными заряженными телами равны по модулю *F*. Как изменится модуль сил электростатического взаимодействия между этими телами, если заряд каждого тела увеличить в 3 раза?

А) увеличится в 3 раза

Б) увеличится в 9 раз

В) уменьшится в 9 раз

Г) уменьшится в 3 раза

11. Как изменится величина заряда, прошедшего через поперечное сечение проводника, если сила тока уменьшится в 2 раза, а время протекания тока в проводнике увеличится в 2 раза?

А) не изменится

Б) увеличится в 4 раза

В) увеличится в 2 раза

Г) уменьшится в 4 раза

12.

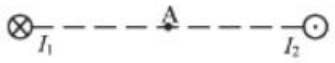

Магнитное поле $\vec{B} = \vec{B}_1 + \vec{B}_2$ создано в точке A двумя параллельными длинными проводниками с токами I_1 и I_2, расположенными перпендикулярно плоскости чертежа. Векторы $\vec{B}_1$ и $\vec{B}_2$ в точке A направлены в плоскости чертежа следующим образом:

А) $\vec{B}_1$ — вниз, $\vec{B}_2$ — вверх

Б) $\vec{B}_1$ — вверх, $\vec{B}_2$ — вверх

В) $\vec{B}_1$ — вниз, $\vec{B}_2$ — вниз

Г) $\vec{B}_1$ — вверх, $\vec{B}_2$ — вниз

13. Магнит выносится из алюминиевого кольца. Направление тока в кольце против часовой стрелки со стороны магнита. Каким полюсом магнит обращен к кольцу?

А) положительным;

Б) отрицательным;

В) северным;

Г) южным

14.

Математический маятник с периодом колебаний T отклонили на небольшой угол от положения равновесия и отпустили с начальной скоростью, равной нулю (см. рисунок). Через какое время после этого потенциальная энергия маятника в первый раз вновь достигнет максимума? Сопротивлением воздуха пренебречь.

А) $\frac{1}{4}T$ Б) $\frac{1}{8}T$ В) $\frac{1}{2}T$ Г) T

15.

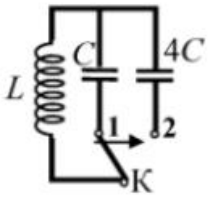

Как изменится период собственных электромагнитных колебаний в контуре (см. рисунок), если ключ K перевести из положения 1 в положение 2?

А) уменьшится в 4 раза

Б) увеличится в 4 раза

В) уменьшится в 2 раза

Г) увеличится в 2 раза

16.

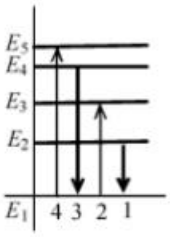

На рисунке изображена диаграмма энергетических уровней атома. Какой цифрой обозначен переход, который соответствует излучению фотона с наименьшей энергией?

А) 1 Б) 2 В) 3 Г) 4

17. На рисунке представлен фрагмент Периодической системы элементов Д. И. Менделеева. Под названием каждого элемента приведены массовые числа его основных стабильных изотопов. При этом нижний индекс около массового числа указывает (в процентах) распространённость изотопа в природе.

2	II	**Li** 3 литий 7_{93} $6_{7,4}$	**Be** 4 бериллий 9_{100}	5 **B** бор 11_{80} 10_{20}
3	III	**Na** 11 натрий 23_{100}	**Mg** 12 магний 24_{79} 26_{11} 25_{10}	13 **Al** алюминий 27_{100}
4	IV	**K** 19 калий 39_{93} $41_{6,7}$	**Ca** 20 кальций 40_{97} $44_{2,1}$	**Sc** 21 скандий 45_{100}
	V	29 **Cu** медь 63_{69} 65_{31}	30 **Zn** цинк 64_{49} 66_{28} 68_{19}	31 **Ga** галлий 69_{60} 71_{40}

Число протонов и число нейтронов в ядре самого распространённого изотопа галлия соответственно равно

А) 31 протон, 38 нейтронов

Б) 69 протонов, 31 нейтрон

В) 38 протонов, 31 нейтрон

Г) 38 протонов, 60 нейтронов

18.

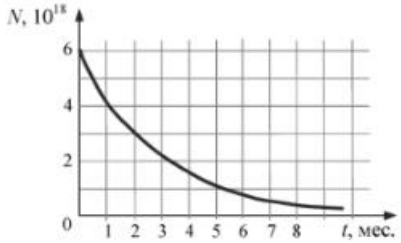

На рисунке представлен график изменения числа ядер находящегося в пробирке радиоактивного изотопа с течением времени. Каков период полураспада этого изотопа?

А) 1 месяц Б) 2 месяца В) 4 месяца Г) 8 месяцев

Часть 2 (напишите полное решение задачи):
Задачи с профессиональной направленностью

19. При проведении облицовочных работ внутри парикмахерской поддерживают температуру воздуха не менее 10°С.Можно ли проводить облицовочные работы, если внутренняя энергия $12 \cdot 10^3$л воздуха в ванной комнате 1800кДж. Молярная масса воздуха равна 0,029кг/моль. Плотность воздуха 1,2 кг/м^3.

20. Когда масло разливают на поверхность воды, наблюдается радужная окраска тонкой плёнки при освещении её параллельными лучами. Чем можно объяснить наблюдаемое явление?

ОТВЕТЫ

Номер задания	1	2	3	4	5	6	7	8	9	10	11	12	13	14	15	16	17	18	19	20
Ответ	А	Г	А	Г	Б	А	А	Б	В	Б	А	В	Г	В	Г	А	А	Б	18° С Да, можно	Интерференция в тонких плёнках

3. Рекомендуемая литература и иные источники

Основные источники:

1. Мякишев, Г. Я., Буховцев, Б. Б., Сотский, Н. Н. / Под ред. Парфентьевой Н.А. Физика. Учебник для 10 кл. – М.: Издательство «Просвещение», 2019. – 416с.
2. Мякишев, Г. Я., Буховцев, Б. Б., Чаругин, В.М. / Под ред. Парфентьевой Н.А. Физика. Учебник для 11 кл. – М.: Издательство «Просвещение», 2019. – 399с.

Дополнительные источники:

3. Дмитриева, В. Ф. Физика для профессий и специальностей технического профиля: учебник для образовательных учреждений начального и среднего профессионального образования / В. Ф. Дмитриева. – 2-е изд., стер. – М.: Издательский центр«Академия»,2019. -448с.

Перечень Интернет-ресурсов:

1. Единая коллекция цифровых образовательных ресурсов.– :http://school-collection.edu.ru/catalog/pupil/?subject=30
2. КМ-школа. – Режим доступа: http://www.km-school.ru/a
3. Открытаяфизика.– :http://www.physics.ru/courses/op25part2/design/index.htm
4. Платформа ЯКласс –: http://www. yaklass.ru /

5.Российская электронная школа – Режим доступа: http://www.resh.edu.ru/(датаобращения:29.08.2022);

6.Физика.ru. – Режим доступа: http://www.fizika.ru

7.ФИПИ (ВПР 11 класс) –: http://www.fipi.ru

8.Электронный учебник: http://www.physbook.ru/ a